锦宏教育微信公众号：jh985211　　锦宏教育客服微信：18117901643

成都市2023级高中毕业班摸底测试

地　理

本试卷满分100分，考试时间75分钟。

注意事项：

1. 答题前，务必将自己的姓名、考籍号填写在答题卡规定的位置上。
2. 答选择题时，必须使用2B铅笔将答题卡上对应题目的答案标号涂黑，如需改动，用橡皮擦干净后，再选涂其它答案标号。
3. 答非选择题时，必须使用0.5毫米黑色签字笔，将答案书写在答题卡规定的位置上。
4. 所有题目必须在答题卡上作答，在试题卷上答题无效。
5. 考试结束后，只将答题卡交回。

一、选择题：本题共16个小题，每小题3分，共48分。在每小题给出的四个选项中，只有一个选项符合题目要求。

随着全球气候变化和地区产业结构调整，工业碳排放的时空格局成为区域可持续发展的重要议题。经济规模、产业结构和技术水平是影响工业碳排放变化的主要因素。图1示意2001—2017年广东省工业碳排放的区域差异。据此完成1～3题。

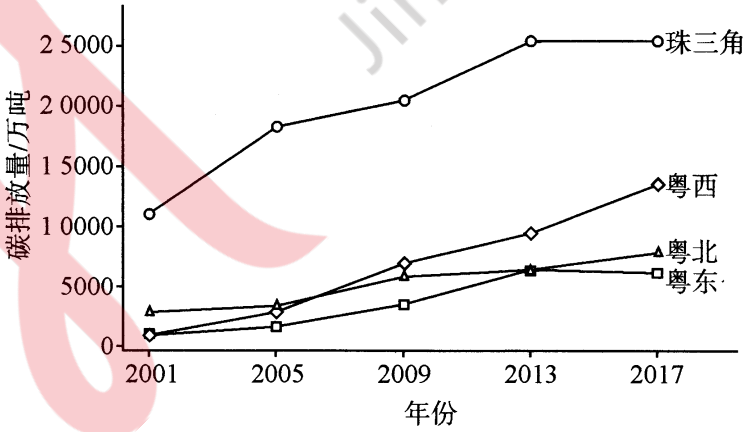

图1

1. 2001—2017年，广东省工业碳排放总量变化的主要原因是

A. 能源开采量增加　　B. 经济发展速度快

C. 工业结构多元化　　D. 减排技术水平高

2. 2013—2017年，广东省四个区域之间产业转移最明显的是

A. 珠三角→粤西　　B. 粤西→粤东

C. 珠三角→粤北　　D. 粤东→粤北

3. 促进广东省工业低碳排放的合理措施是

A. 提高全省植被覆盖率　　B. 开发珠三角地区水能资源

C. 调整省内工业空间分布　　D. 优化珠三角地区能源结构

城市辐射断裂点理论认为，两个城市之间存在一个“断裂点”，该点受两个城市的辐射吸引力相等，超过这一临界点，一城市的辐射影响会减弱，另一城市的辐射影响则增强。图 2 为天津市与周边城市之间的辐射断裂点分布图。据此完成 4～5 题。

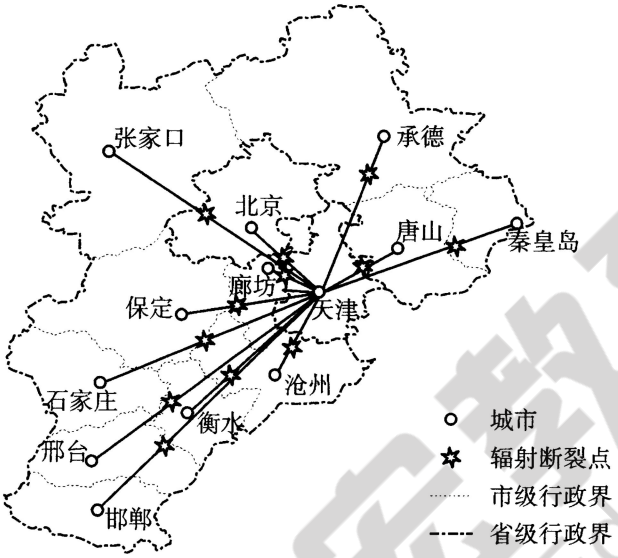

图 2

4. 唐山、沧州与天津的距离相近，但城市辐射断裂点位置差异明显，其主要原因是

A. 沧州人口规模大　　B. 唐山经济实力强

C. 沧州产业基础好　　D. 唐山行政区域大

5. 近年来，承德、天津之间的城市辐射断裂点不断向天津靠近，反映出

A. 两城市产业均衡发展　　B. 天津城市腹地范围扩大

C. 两城市交通联系增强　　D. 承德城市经济增速较快

黄河三角洲滨海湿地是典型的河口、海岸湿地生态系统。近年来，黄河三角洲滨海人工湿地面积不断扩大，但自然湿地萎缩、功能退化严重(表 1)。据此完成 6～7 题。

表 1

自然湿地类型	面积/公顷		主要生态问题
	1985 年	2014 年	
浅海水域	77967.61	74038.30	渔业资源锐减
滩涂湿地	33581.62	24594.59	生物栖息地破坏
盐沼湿地	14340.94	9585.64	外来物种入侵
淡水湿地	8093.53	4039.31	淡水资源短缺

6. 1985—2014 年期间，表中滩涂湿地面积锐减的主要原因可能是

A. 水利工程建设　　B. 海平面上升　　C. 灌溉用水增加　　D. 养殖规模扩大

7. 针对该区域自然湿地的生态问题，适宜采用的治理措施是

①浅海水域—维护鱼类栖息地　　②滩涂湿地—修复生态环境

③盐沼湿地—增加生态补水　　④淡水湿地—改良土壤性质

A. ①②　　B. ②③　　C. ③④　　D. ①④

湖北省十堰市被誉为“汽车城”，其汽车工业起步于上世纪六十年代。近年来，当地政府推动汽车产业高质量发展，吸引了众多新能源汽车、智能网联汽车企业集聚，同时还大力发展了旅游、健康、生态等产业。图 3 为十堰市 2017—2021 年三次产业产值变化。据此完成 8～10 题。

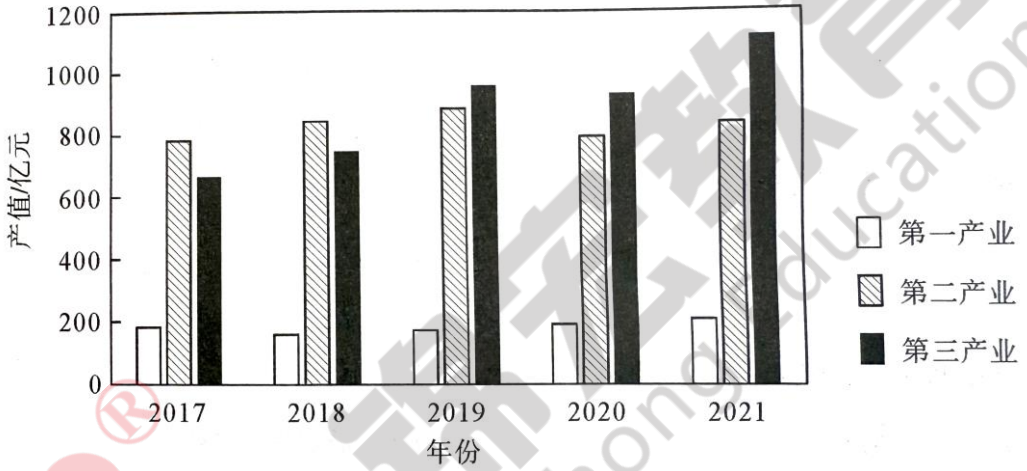

图 3

8. 2017—2021 年期间，十堰市

A. 产业总产值持续增加　　B. 第一产业比重整体下降

C. 第二产业比重波动增大　　D. 第三产业产值持续增加

9. 十堰市吸引众多新能源汽车企业落户的比较优势是

①产业基础好　　②创新环境好

③市场需求大　　④政策支持

A. ①②　　B. ②③　　C. ③④　　D. ①④

10. 十堰市产业结构升级体现在

①第三产业发展快　　②工业附加值提高

③劳动力主要向第二产业转移　　④轻工业转型为重工业

A. ①②　　B. ②③　　C. ③④　　D. ①④

江苏省是我国重要的农业大省，粮食作物和油料作物产量大，冬半年农业生产常受寒潮影响。图 4 为 1979—2020 年江苏省寒潮频次(单位：次)空间分布图。据此完成 11～13 题。

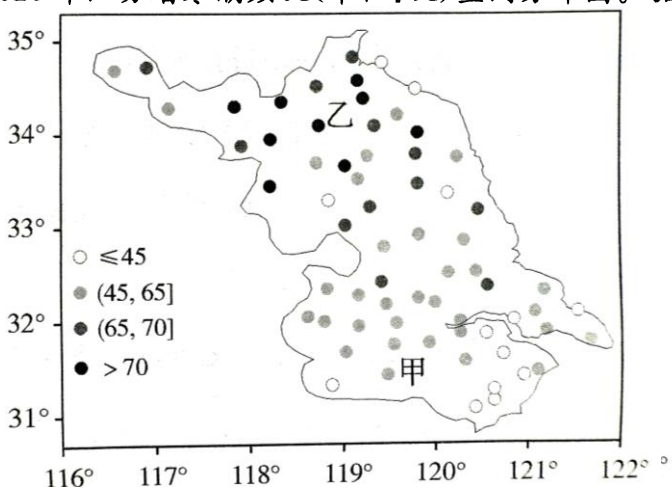

图 4

11. 江苏省寒潮频次的空间分布特点大致呈

A. 西南向东北递增　　B. 沿海向内陆递增

C. 西北向东南递减　　D. 南北向中部递减

12. 影响甲地寒潮频次较成都多的主要因素是

A. 洋流　　B. 海陆位置

C. 地形　　D. 纬度位置

13. 春季寒潮对甲地粮油作物的影响较乙地更大，主要是因为两地

A. 作物生长阶段不同　　B. 防灾减灾能力不同

C. 农业生产部门不同　　D. 经济发展水平不同

图 5 示意美国本土年降水量的空间分布。据此完成 14～16 题。

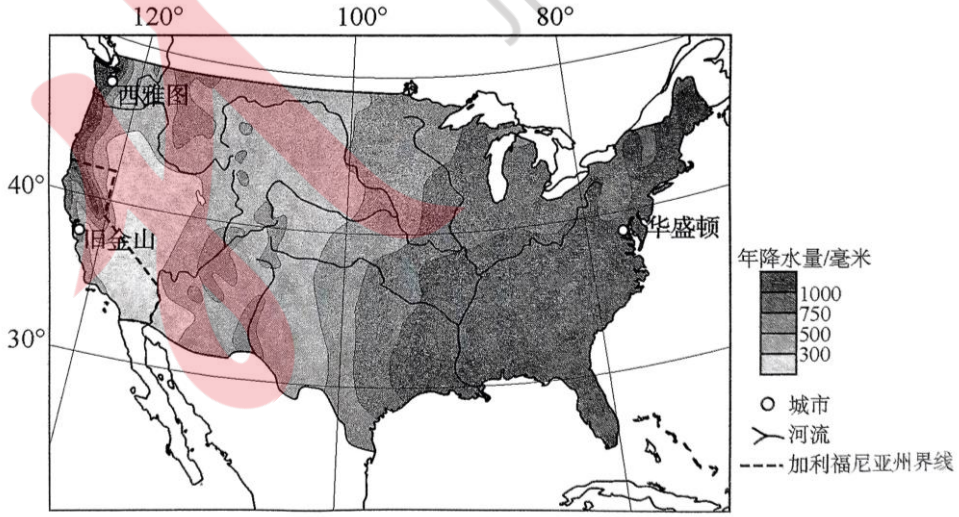

图 5

14. 旧金山、西雅图年降水量差异显著，其主要影响因素是

A. 纬度位置　　B. 海陆位置

C. 大气环流　　D. 地形地势

15. 旧金山冬季气温较华盛顿高，主要原因是旧金山

A. 受暖流影响大　　B. 受副热带高压影响大

C. 受寒流影响小　　D. 受南下冷空气影响小

16. 加利福尼亚州农业灌溉用水量最大的季节是

A. 春季　　B. 夏季　　C. 秋季　　D. 冬季

二、非选择题：本题共 3 个小题，共 52 分。

17. 阅读图文材料，完成下列要求。（18 分）

宁夏石嘴山市曾以“塞上煤城”闻名全国，煤炭探明储量 9.77 亿吨。经百年大规模开采后，探明储量剩余 1.7 亿吨，采煤沉陷区面积达 41.4 平方千米。近年来，石嘴山依托国家新能源综合示范区政策优势，探索创新出“光伏＋采煤沉陷区”融合发展之路，并将电力并入国家供电网。图 6 为石嘴山区域图。

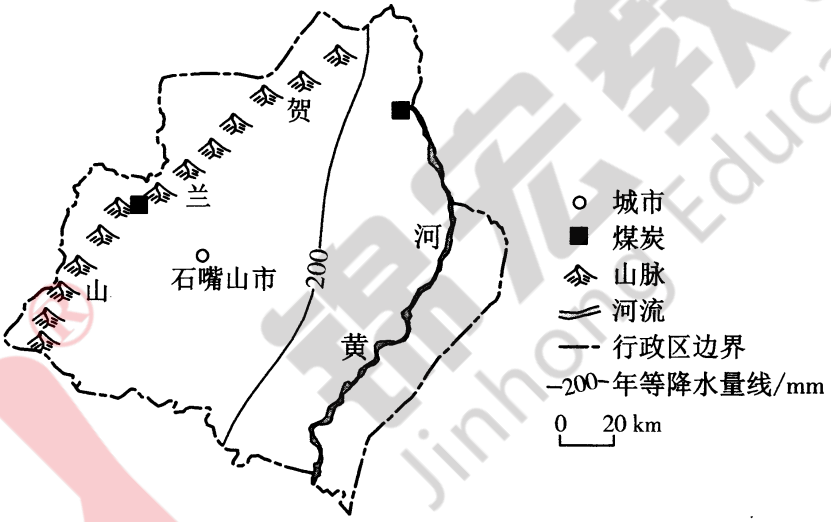

图 6

(1)指出石嘴山煤炭工业兴起的自然资源条件。（4 分）

(2)简述石嘴山采煤沉陷区发展光伏发电的区位优势。（8 分）

(3)说明石嘴山光伏发电对当地能源供给的有利影响。（6 分）

18. 阅读图文材料，完成下列要求。（16 分）

青海省祁连县(图 7)位于祁连山南麓，出产藏绵羊、牦牛等优质畜产品，因产草量低和生态保护等影响，当地牧场常出现冬季饲草不足问题。为解决饲草不足问题，每年 10 月至次年 3 月，祁连县牧民将牲畜运往甘肃省民乐县租赁的秸秆地放牧，并采购青贮玉米等作为补充饲料，走出一条“飞地畜牧业”的发展道路。

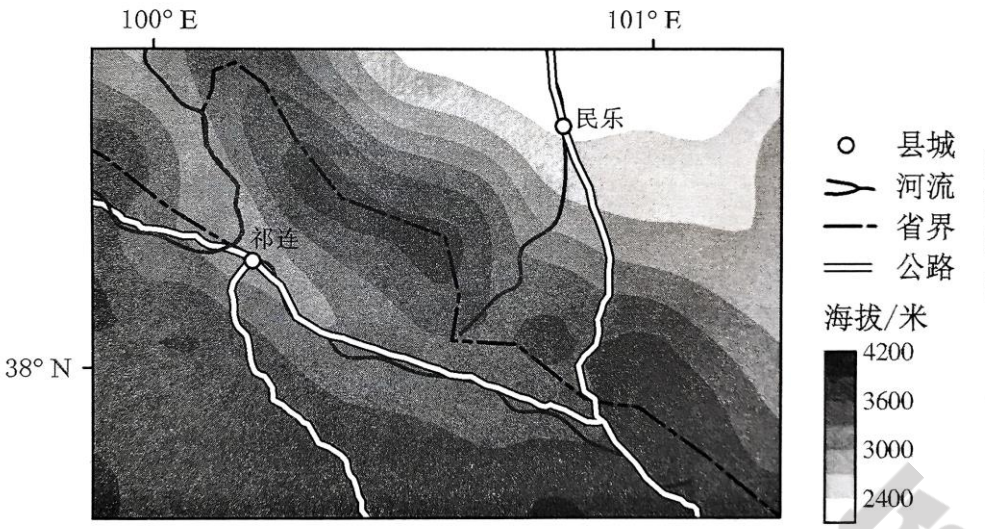

图 7

(1)从气候角度，简述祁连县牧场冬季饲草不足的原因。(4 分)

(2)分析民乐县成为祁连县“飞地畜牧业”目的地的有利条件。(6 分)

(3)说明“飞地畜牧业”的发展对民乐县农业的积极影响。(6 分)

19. 阅读图文材料，完成下列要求。(18 分)

密西西比河是美国最重要的内河航道，为改善航运条件，其干流上共建有 41 座梯级闸坝。密西西比河某弯曲河段通航条件较差，甚至需要单向通行，当地通过在河道一侧修建水下堰群(图 8)，航道明显变化，显著改善了该曲流的通航条件。图 9 为沿 A—B 剖面测得的河流河床横断面的形态变化。

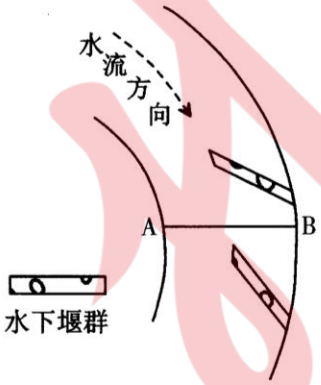

图 8

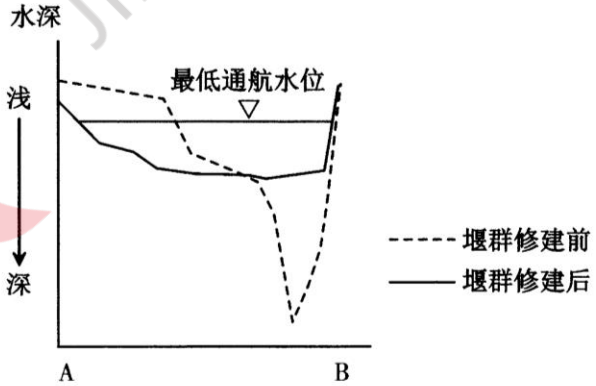

图 9

(1)分析修建梯级闸坝对密西西比河航运条件的改善作用。(8 分)

(2)分析水下堰群修建后航道的变化对曲流河段航运条件的改善作用。(6 分)

(3)简述密西西比河流域梯级开发对入海口地区生态环境的不利影响。(4 分)